Achsensymmetrie

1 Zeichne Pfeile.

Diese Figur ist symmetrisch.





2 Male das Spiegelbild.

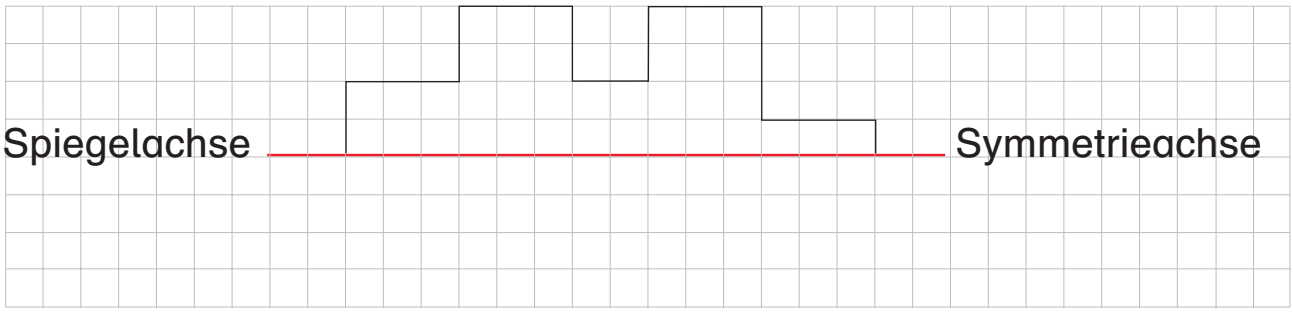

3 Stelle einen Spiegel auf die rote Spiegelachse.
Lies die Wörter und Zahlen und schreibe sie auf.

EL FICHE ICH 30

4 Zeichne alle Spiegelachsen ein.

OHO ANNA 30 ZOO

100 ECHO OTTO 66 33

© Bibliographisches Institut GmbH, Berlin